Газизова ДШ 10 класс.

21,9.

Технопарк Университетских Педагогических Компетенций | УЧИТЕЛЬ БУДУЩЕГО ПОКОЛЕНИЯ РОССИИ

Федеральное государственное бюджетное образовательное учреждение высшего образования Башкирский государственный педагогический университет им. М. Акмуллы

Заключительный этап Всероссийской олимпиады школьников и студентов организаций СПО «Акмуллинская олимпиада» по «Географии»

8-9, 10-11 классы, СПО

1 вариант

(2024-2025 уч. год)

0,8 см · 250 м = 200 м.

$\frac{200 м}{25 м} = 8.$

Часть 1

1. Вам предоставили фрагмент топографической карты. Известно, что высота сечения рельефа h_c= 25 м, а масштаб карты М 1:25000. 8 %

0,5

Определите уклон (в процентах и в градусах) между горизонталями 1 и 2 по направлению линейки.

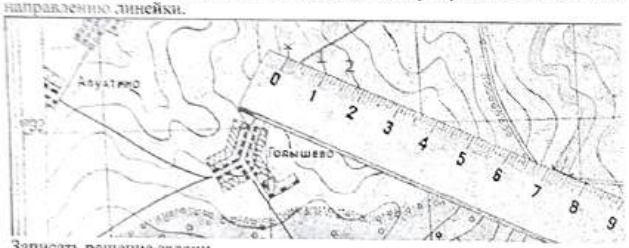

Записать решение задачи.

И ответить на вопрос, какие с/х культуры можно выращивать на этом склоне. Почему? Дать развернутый ответ. Можно выращивать фрукты и овощи. На карте обозначены фруктовые сады.

2. Установите соответствие:

Малочисленный народ	Наименование субъекта РФ, на территории которых проживают коренные малочисленные народы
1) тофалары (тофа)	А) Иркутская область
2) саамы	Б) Челябинская область
3) абазины	В) Мурманская область
4) нагайбаки	Г) Карачаево-Черкесская область
5) аварцы	Д) Республика Дагестан

Ответы внесите в таблицу:

1) тофалары (тофа)	А +
2) саамы	В +
3) абазины	Г +
4) нагайбаки	Б +
5) аварцы	Д +

5

3. Определите агломерацию и страну по данным крупных городов. На каком острове или полуострове расположены данные городские агломерации. Запишите в таблицу.

Агломерация (главный город)	Другие наиболее крупные города в составе агломерации	Государство	Остров, полуостров
Сеул	Пучхан Инчхан Суван Соннам	Южн. Корея	корейский п-ов
Джакарта	Богор Бекаси Тангеранг Селатан	Индонезия	о Ява
Токио	Иокогама Кавасаки Сайтама Чиба	Япония	о Хонсю
Дели	Фаридабад Газиабад Нойда Гургаон	Индия	пов Индостан

6

4. Россия по экспорту нефти занимает второе место в мире. Основную часть нефти Россия экспортирует по трубопроводам. В силу общественно-политических причин в тех странах, через территорию которых проходят нефтепроводы и в связи распадом СССР, появились проблемы экспорта нефти по трубопроводам. Построенные в СССР нефтеналивные порты остались в Прибалтийских странах, в Польше. В России в настоящее время действуют крупные нефтеналивные порты, в таблице приведены их названия.

Вам необходимо дать ответы на следующие вопросы:

-определите, субъект, в котором находится порт?

-подберите для каждого порта экономический район, где он расположен?

-назовите страну, экономический район или месторождение, откуда поступает нефть в нефтеналивной порт?

Ответы внесите в таблицу:

Название нефтеналивного порта	Субъект РФ	Экономический район	Страна, экономический район или месторождение
Приморск	Ленингр. об.	СЗ экон. рай.	0,6
Усть-Луга	Ленингр. об	СЗ	0,6
Варандей	Ямало-Ненец АО		
Новороссийск	Краснодарский край	Южный	0,6
Туапсе	Краснодар. край	Южный.	0,6

(2,4)

Часть 2

5. Ниже представлены изображения космической съемки объектов одного города. В этом городе множество достопримечательностей: небоскребы, трасса формулы 1, современный международный аэропорт, здесь на пустынных островах создают элитные курортные отели. Этот город является столицей государства, федеративного устройства. Это государство имеет выход к двум заливам.

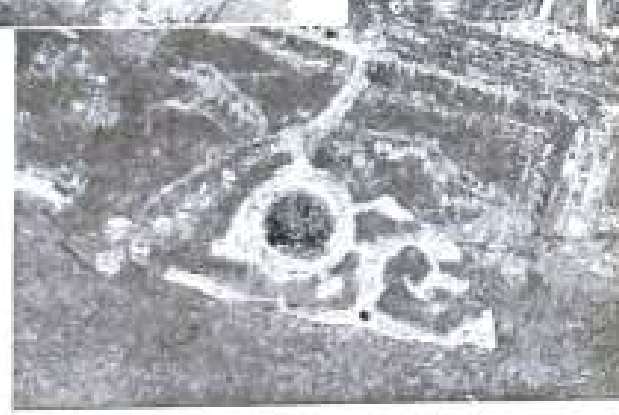

Назовите название заливов и пролива, соединяющий эти заливы.

Заливы	Пролив
Персидский	Баб-эль-Мандебский

(0,3)

6. Вам представлены изображения космической съемки известных религиозных сооружений. Координаты объектов: 46° с.ш. 44° в.д., 21° с.ш. 39° в.д., 27° с.ш. 78° в.д., 55° с.ш. 49° в.д.



1

2



3



4

Заполните следующую таблицу:

№	Название объекта	Координаты
1	Тадж Махал	0,5
2		
3	Кул-Шариф	55° с.ш. 49° в.д. 1
4	Амфитеатр в Турции	21° с.ш. 39° в.д.

0,5 1 0,5 2

7. На карте обозначена пунктирная линия. Эту линию называют невидимой границей между двумя разными мирами природы. На этой линии нет гор или вулканов, но животные не пересекают ее уже многие тысячелетия, хотя физически они могут это сделать.

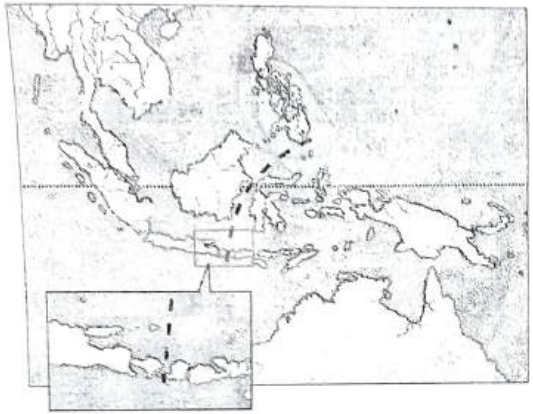

Ответьте на следующие вопросы:

1.Напишите имя исследователя, который впервые описал это явление?

2. По какому архипелагу она проходит?

3. Перечислите моря и пролив, которые пересекает пунктирная линия?

Ответы на вопросы запишите в таблицу

Имя исследователя	Название архипелага	Название морей и пролива
Уоллесс	Малайский	Банда море, море Сулавеси, Макасарский пролив

1

8. Вам представлены космоснимки крупнейших комплексов построенных в честь Великой Отечественной войны. В комплексах установлены скульптуры советским солдатам, труженикам тыла. Названия комплексов: памятник Солдату и Матросу, памятник «Тыл — фронту», Мамаев Курган, Трептов парк.

1

2



3

4

Соотнесите названия объектов с изображениями. И укажите город, в котором расположены эти объекты. Расположите объекты с запада на восток.

№	Название комплекса	Город
1	1 Мамаев Курган	Волгоград
2	2 Трептов парк	Берлин
3	3 "Тыл-фронту"	Магнитогорск
4	4 Солдату и Матросу	Севастополь

1 1 1 1

4б

9. Этот памятник истории и архитектуры располагается в городе Калязин. В 1939 году при наполнении водохранилища часть постройки была затоплена.

Ответьте на следующие вопросы:

Название памятника	Название реки	Название водохранилища
Троицко-Макарьев монастырь	р. Волга +	Угличское +

0,6

10. Перед вами схемы почвенных профилей почв Русской равнины в границах РФ.

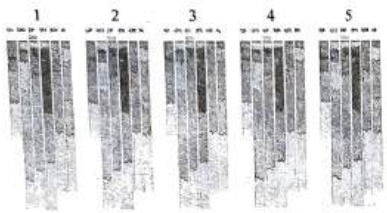

Расположите почвы согласно широтной зональности с севера на юг. Укажите название почв, и в каких зонах растительности они встречаются.
Ответы впишите в таблицу:

№	Название почвы	Название растительной зоны
	Подзолистые	Тайга +
	Дерново-подзолист.	Тайга +
	Серые лесные	зона смеш. лесов.
	Бурые	лесостепи
	Черноземы	Степи +

0

11. Русское географическое общество (РГО) было основано в 1845 году. И в этом году РГО празднует круглую дату 180 лет. Одним из поводов создания Русского географического общества было открытие нового континента. Обществом руководили представители государственной власти, ученые, общественные деятели. Одним из направлений работы общества является популяризация географических знаний, которая реализуется в проектах: ночь географии, география детям, географический диктант, фотоконкурс «Самая красивая страна», лучший гид России и другие.

РУССКОЕ ГЕОГРАФИЧЕСКОЕ ОБЩЕСТВО • ОСНОВАНО В 1845 г. •

РУССКОЕ
ГЕОГРАФИЧЕСКОЕ
ОБЩЕСТВО

Вопрос	Ответ
Открытие какого континента послужило одним из поводов создания общества?	Антарктида +
Кто является председателем попечительского совета РГО?	Шойгу
В каком году состоялась первая просветительская акция «Географический диктант»?	2015 +

0,6